Tanska

Täydennä ristikko Tanskan tiedoilla.

Mikä on Tanskan suurin itsehallintoalue? _____

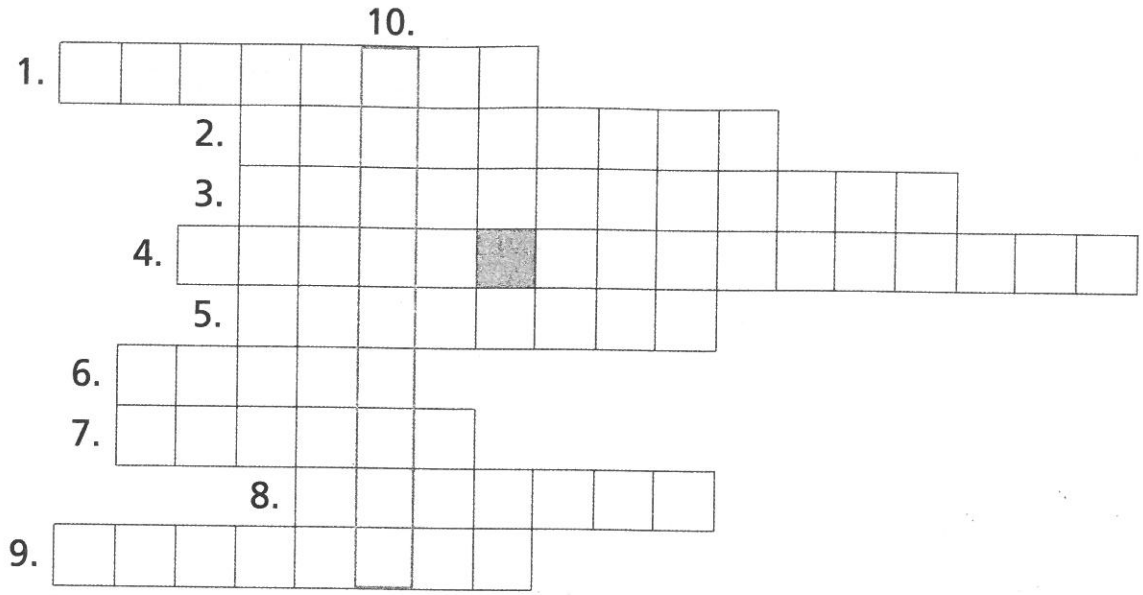

1. Pohjanmerta ja Itämerta yhdistävä salmi.
2. Tanskaan kuuluva itsehallintoalue.
3. Tanskan suurin kaupunki.
4.
5. Tanskan niemimaa.
6. Tanskan rajanaapurimaa.
7.

8. Tanskan itäpuolella oleva meri.
9. Tärkeä maataloustuote.
10. Tanskan suurin itsehallinnollinen alue.

Nimeä tanskalaisia maatalouden vientituotteita.




_____

_____